全国統一小学生テスト

全国統一小学生テスト　対策授業

1年生 算数

1　つぎの □ に　あてはまる　かずを　かきましょう。こたえは　かいとうようしに　かきましょう。

(1)　4 + 3 = □

(2)　9 − 3 = □

(3)　8 + 6 = □

(4)　13 − 7 = □

(5)　□ + 6 = 11

(6)　8 + □ = 17

(7)　12 − □ = 6

(8)　□ − 3 = 8

2　もんだいを　よく　よんで　こたえましょう。こたえは　かいとうようしに　かきましょう。

(1)　きのうは　チューリップが　7本　さいて　いました。今日　見ると，4本　かれて　いました。今日　さいて　いるのは　なん本ですか。

(2)　赤い　かみが　3まい，青い　かみが　2まい，きいろい　かみが　3まい　あります。いろがみは　あわせて　なんまい　ありますか。

(3)　ひこうじょうに　ひこうきが　6き　とまって　いました。そこに　4き　やって　きて，その　あと　2き　とんで　いきました。いま　ひこうきは　なんき　とまって　いますか。

(4)　かぜを　ひいた　りこちゃんは，今日から　あさと　夕がたに　2つぶずつ，くすりを　のむ　ことに　なりました。あさっての　よるまでには，くすりを　なんつぶ　のむ　ことに　なりますか。

3　もんだいを　よく　よんで　こたえましょう。こたえは　かいとうようしに　かきましょう。

(1)　かのんちゃんは　みかんが　3こ　入(はい)って　いる　ふくろを　4つ　もらいました。もらった　みかんは　ぜんぶで　なんこですか。

(2)　ふうせんが　15こ　あります。1人(ひとり)に　3こずつ　わたすと，なん人(にん)に　わけられますか。

(3)　４つの　ヒントを　よく　よんで　だれが　あめを　なんこ　もって　いるか　かんがえましょう。

- あめは　ぜんぶで　１５こ　ありました。
- ももの み は　３こ入(い)りの　ふくろを　２つ　もらいました。
- のいちごは　ももの みが　もって　いる　かずより　１こ　すくない　かずの　あめを　もって　います。
- そらまめは　こうさぎよりも　２こ　おおく　あめを　もって　います。

ももの み	のいちご	そらまめ	こうさぎ
			
こ	こ	こ	こ

4　つみ木を　すきまなく　つみました。もんだいを　よく　よんで　こたえましょう。
こたえは　かいとうようしに　かきましょう。

(1) つみ木は　なんこ　ありますか。こたえは　かいとうようしに　かきましょう。

①

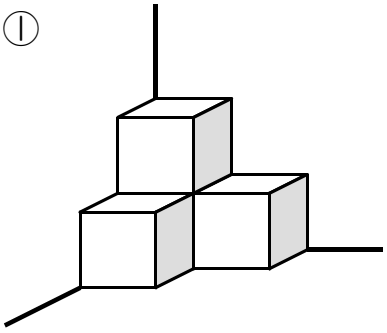


こ

②

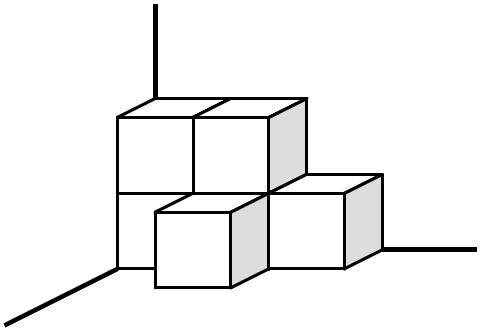


こ

③

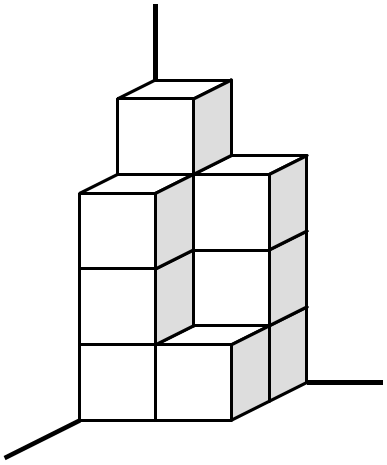


こ

④

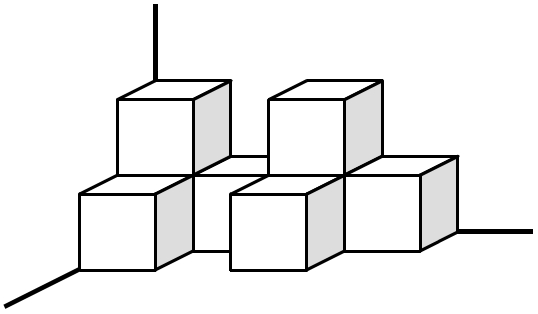


こ

⑵　したの　つみ木を　やじるしの　ほうこうから　見ると　つみ木は　なんこ　見えますか。つみ木は　ぜんぶで　５こ　つかって　います。

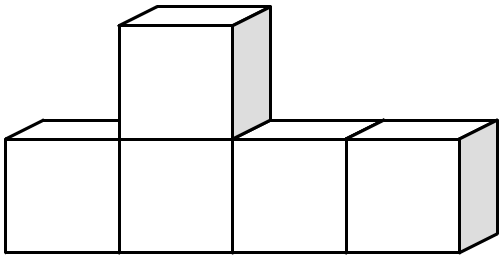

② よこから 見ると



① まえから 見ると

① まえから　見ると


こ

② よこから　見ると


こ

5　下の　ヒントを　よんで，あてはまる　かずを　こたえましょう。

(1)

〈ヒント　1〉　一のくらいが　6の　かずです。
〈ヒント　2〉　一のくらいと　十のくらいの　すうじを　たすと　10です。

こたえ

(2)

〈ヒント　1〉　一のくらいが　3の　かずです。
〈ヒント　2〉　30から　100の　あいだに　ある　かずです。
〈ヒント　3〉　一のくらいと　十のくらいの　すうじの　ちがいは　2です。

こたえ

6　　１３０という　かずに　ついて　いろいろと　かんがえましょう。

(1)　１３０は　１０を　［　　］こ　あつめた　かずです。

(2)　１３０は　１００を　［　①　］こと　１０を　［　②　］こ　あつめた　かずです。

(3)　１３０は　５０を　［　　］こと　１０を　３こ　あつめた　かずです。

(4)　１３０は　１００よりも　［　　］　大(おお)きい　かずです。

(5)　１３０は　２００よりも　［　　］　小(ちい)さい　かずです。

全国統一小学生テスト　対策授業
かいとうようし

１年生
算　数

１まいめ

名前	

1

(1)		(2)		(3)		(4)	
(5)		(6)		(7)		(8)	

2

(1)	本（ほん）	(2)	まい	(3)	き	(4)	つぶ

3

(1)	こ	(2)	人（にん）
(3)	ももの み こ	のいちご こ	そらまめ こ	こうさぎ こ

全国統一小学生テスト　対策授業
かいとうようし

１年生
算　数

２まいめ

4

(1)	①	こ	②	こ	③	こ	④	こ
(2)	①	まえから　見(み)ると　こ			②	よこから　見(み)ると　こ		

5

(1)		(2)	

6

(1)		(2)	①		②		
(3)		(4)			(5)		